ا | إنشاء أشكال هندسية

OBJECTIFS

عناصر الدرس

1. المستقيمان المتوازيان والمستقيمان المتعامدان
2. محور قطعة مستقيم – منصف زاوية
3. مثلثات خاصة
4. المستطيل، المربع، المعين , الدائرة و قوس الدائرة

1 | المستقيمان المتوازيان والمستقيمان المتعامدان

DÉFINITION

يكون مستقيمان متوازيان إذا كانا لا يشتركان في أية نقطة

EXEMPLES

المستقيم (M) يوازي (N)
ونكتب: $(M) \parallel (N)$

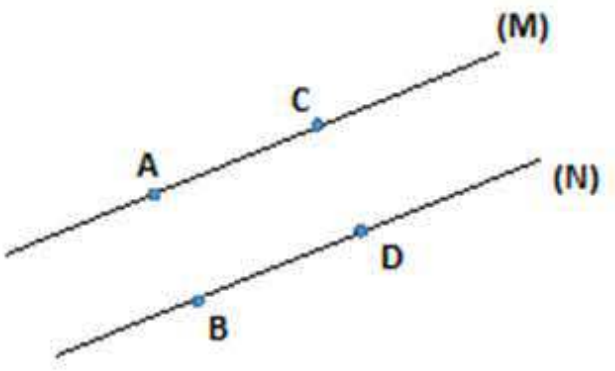

DÉFINITION

المستقيمان المتعامدان هما المستقيمان المتقاطعان اللذان يحددان زاوية قائمة، حيث نرمز للتعامد بالرمز $\perp$

EXEMPLES

(M) و (N) متعامدان و متقاطعان في النقطة A
إذن: $(M) \perp (N)$
ونقول أن المستقيم (N) عمودي على المستقيم (M) في النقطة A

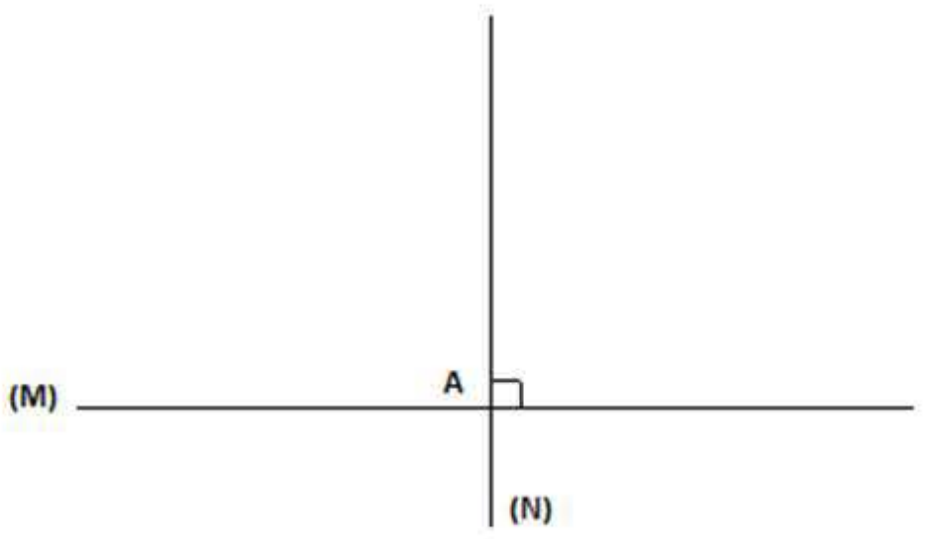

أ | خواص

PROPRIÉTÉ

إذا كان مستقيمان متوازيان فكل مستقيم عمودي على أحدهما يكون عموديا على الآخر

EXEMPLES

لدينا: $(D) \parallel (D')$ و $(M) \perp (D)$
إذن: $(D') \perp (M)$

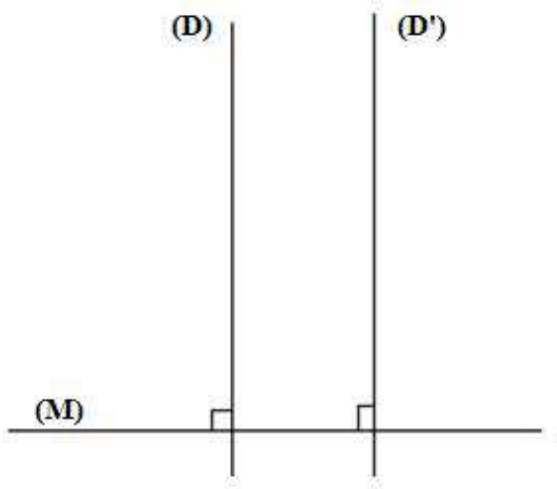

PROPRIÉTÉ

إذا كان مستقيمان عموديان على مستقيم واحد إذن هما متوازيان

EXEMPLES

لدينا: $(L) \perp (D)$ و $(L) \perp (D')$
إذن: $(D) \parallel (D')$

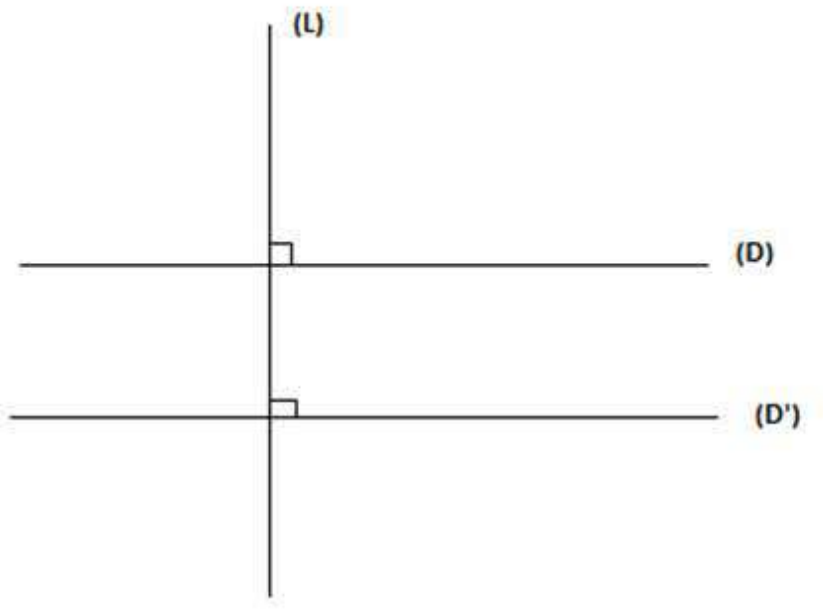

2 | محور قطعة مستقيم – منصف زاوية

أ | محور قطعة مستقيم

DÉFINITION

محور قطعة مستقيمة هو ذلك المستقيم العمودي على منتصف هذه القطعة

EXEMPLES

لدينا: $(D) \perp (NM)$ في النقطة A و $AM = AN$
إذن نقول: (D) محور للقطعة $[NM]$

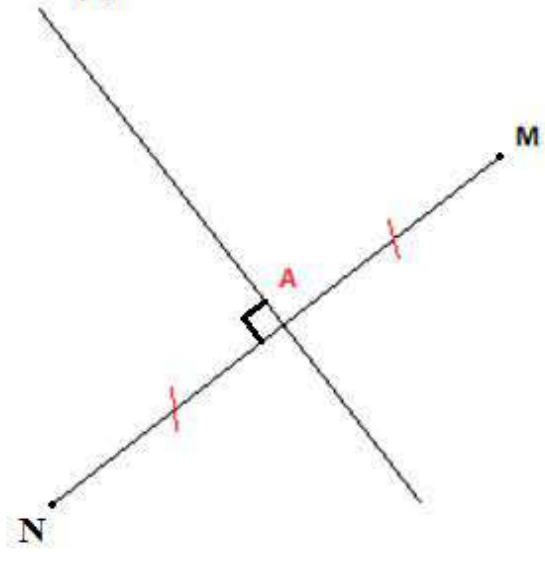

PROPRIÉTÉ

- محور قطعة مستقيم هو محور تناظر لها
- أي نقطة من محور قطعة مستقيم لها نفس البعد عن طرفي هذه القطعة

(D) محور $[NM]$ و A نقطة من (D)

إذن: $AM = AN$

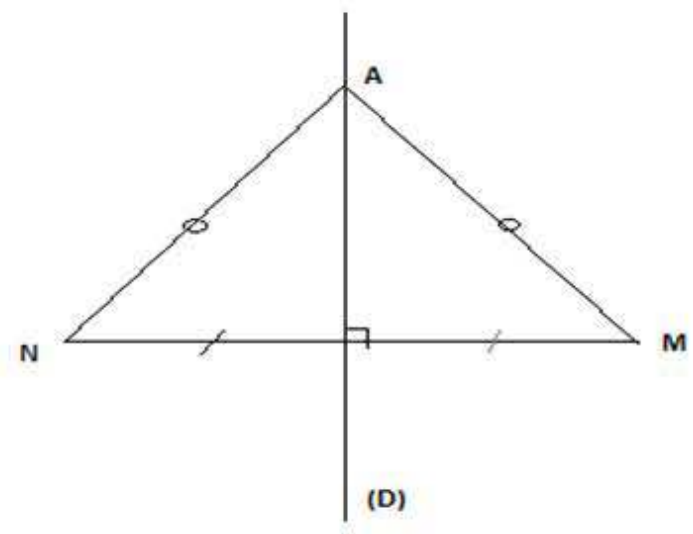

ب | منصف زاوية

DÉFINITION

منصف زاوية هو المستقيم الذي يقسم هذه الزاوية إلى زاويتين متقايستين

EXEMPLES

(OD)هو منصف الزاوية $\widehat{AOB}$

إذن: $\widehat{AOD} = \widehat{DOB}$

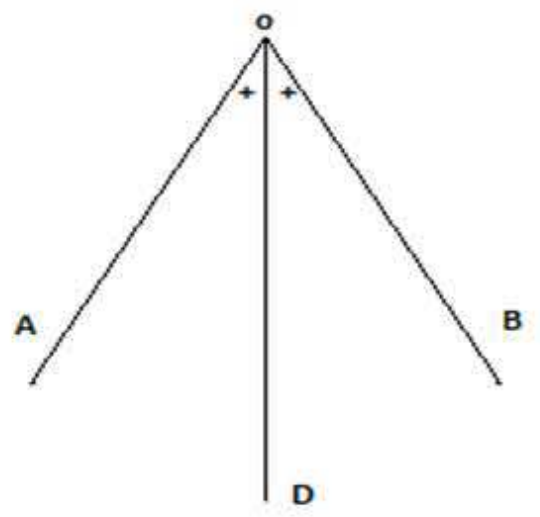

PROPRIÉTÉ

- منصف الزاوية هو محور تناظر لها
- كل نقطة تنتمي إلى منصف الزاوية تكون متساوية المسافة عن ضلعي هذه الزاوية

منصف الزاوية $\widehat{AOB}$ هو المستقيم (OD) و M نقطة من (OD)

إذن: $MK = MP$

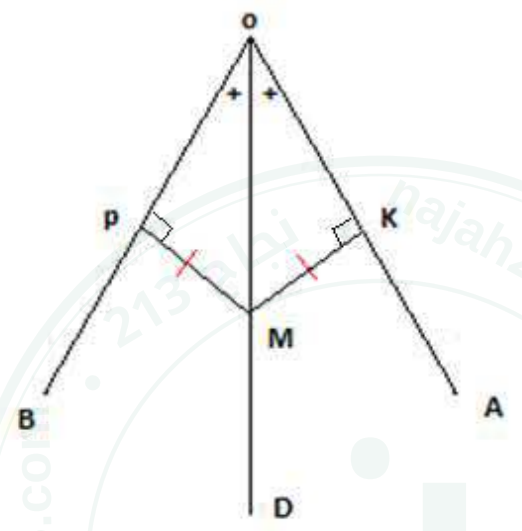

3 | مثلثات خاصة

DÉFINITION

المثلث المتساوي الساقين له ضلعين لهما نفس الطول

EXEMPLES

لدينا: $AB = AC$

إذن المثلث ABC متساوي الساقين

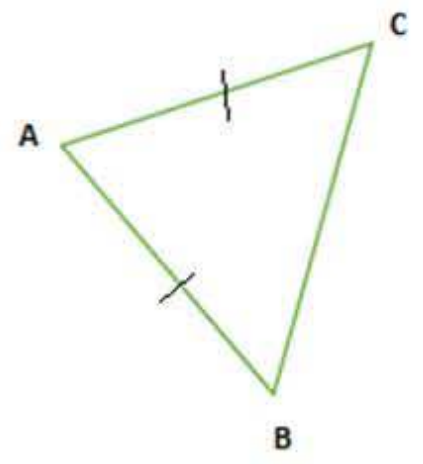

PROPRIÉTÉ

- محور تناظر قاعدة مثلث متساوي الساقين هو نفسه محور تناظرهذا المثلث
- محور تناظر قاعدة مثلث متساوي الساقين هو منصف زاوية الرأس الأساسي للمثلث

$\widehat{CAh} = \widehat{BAh}$

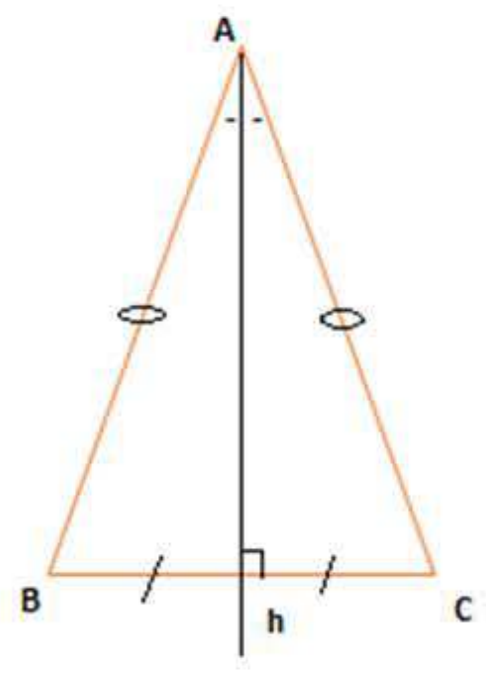

DÉFINITION

المثلث المتساوي الأضلاع هو مثلث طول أضلاعه الثلاثة متساوية أي لهم نفس الطول

PROPRIÉTÉ

المثلث المتقايس الاضلاع هو مثلث أضلاعه لها نفس الطول .
الرأس الأساسي لمثلث متقايس الأضلاع هو أحد رؤوسه الثلاثة

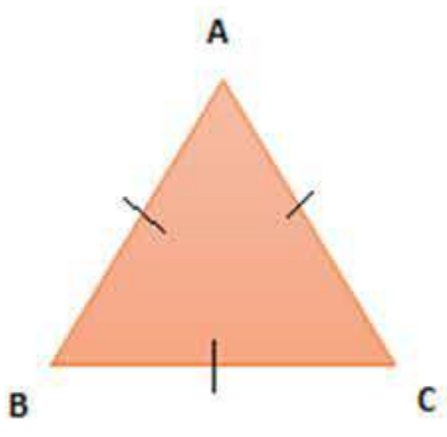

najah213.com • نجاح 213

DÉFINITION

المثلث القائم هو المثلث الذي له زاوية قائمة

$\widehat{BAC}=90^\circ$

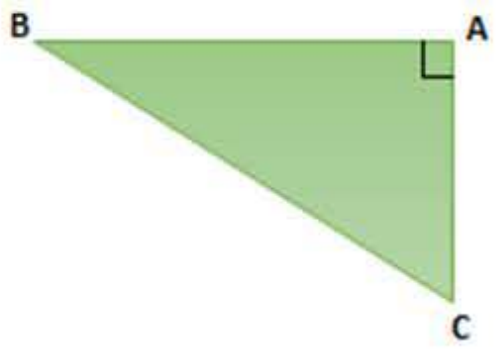

4 | المستطيل، المربع، المعين والدائرة

أ | المستطيل

DÉFINITION

المستطيل هو شكل رباعي له كل ضلعين متقابلين متقايسان و له أربع زوايا قائمة

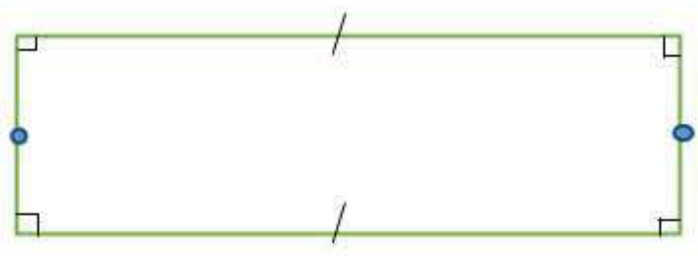

PROPRIÉTÉ

محور كل ضلعين متقابلين من المستطيل يمثلان محورا تناظر لهذا المستطيل

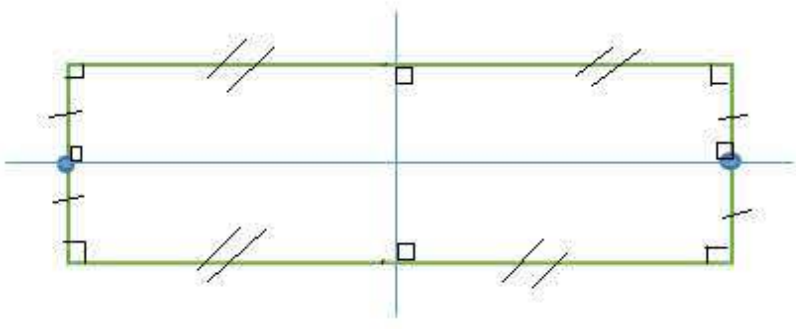

ب | المربع

DÉFINITION

المربع هو شكل رباعي أضلاعه الأربعة متقايسة وله أربع زوايا قائمة

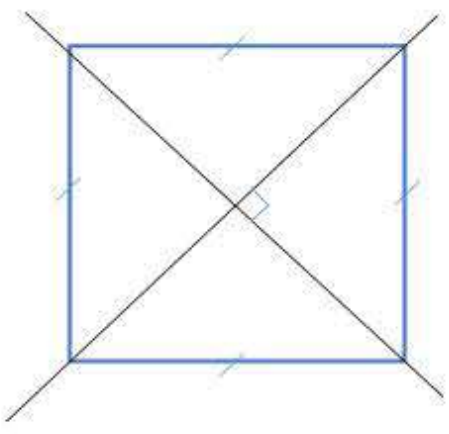

PROPRIÉTÉ

1. محور كل ضلعين متقابلين في المربع يمثلان محورا تناظر لهذا المربع
2. قطرا المربع متعامدان و كل منهما هومحور تناظر له.

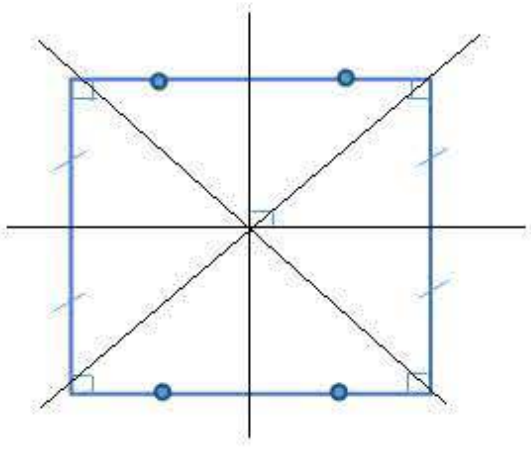

ت | المعين

DÉFINITION

المعين هو رباعي أضلاعه الأربعة متقايسة، قطراه متعامدان وكل قطر يمثل محور تناظر للمعين

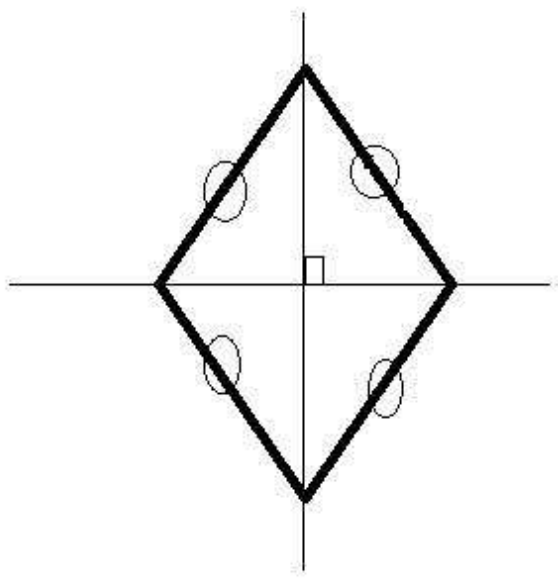

PROPRIÉTÉ

قطرا المعين متعامدان و كل منهما محور تناظر له.

ث | الدائرة

DÉFINITION

تتكون الدائرة من كل االنقط التي لها نفس البعد عن النقطة الثابتة تسمى المركز .

لدينا الدائرة التالية :

- المسافة بين نقطة من الدائرة والمركز يمثل نصف القطر مثل: $[OM]$
- $[AB]$ يسمى قطر الدائرة
- $[CD]$ يسمى وتر الدائرة
- $\widehat{MB}$ يمثل قوس الدائرة

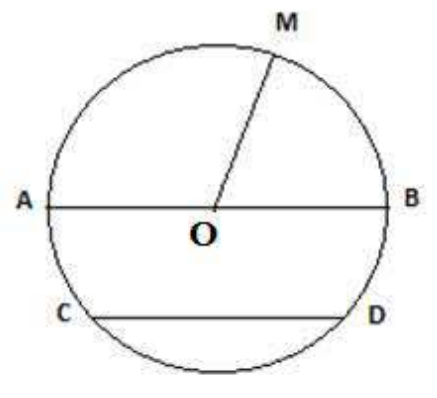

PROPRIÉTÉ

كل قطر لدائرة هو محور تناظر لها